Mathématiques
grande section

Aide ce petit brésilien à compter combien il a ramassé de cabosses de cacaoyer dans chaque jour. Écris le nombre dans le carré. Tu peux t'aider avec la bande numérique en bas..

Tu as terminé?
Tu peux colorier les cabosses en vert, orange, jaune ou violet car il existe, tu l'as appris dans la vidéo, plusieurs variétés de cacaoyer

LUNDI

MARDI



MERCREDI



JEUDI

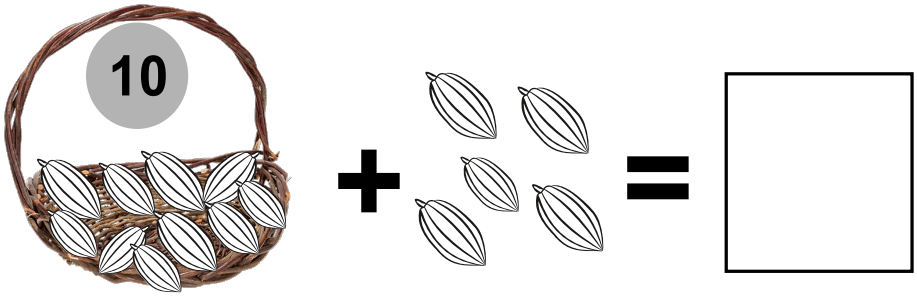

VENDREDI



1	2	3	4	5	6	7	8	9	10	11	12	13	14	15	16	17	18	19	20